HISTORIAS GRÁFICAS

Para cada gráfica mostrada, escribe una breve historia que describa la desigualdad ilustrada. Tu historia debe explicar qué representa la recta y qué representa el sombreado. Finalmente, escribe una desigualdad algebraica para la gráfica mostrada.

1.

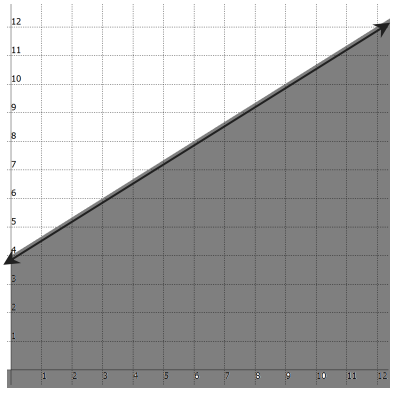

_____

_____

_____

Expresión algebraica: _____

2.

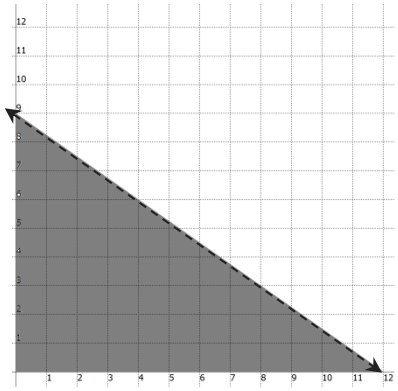

_____

_____

_____

Expresión algebraica: _____

3.

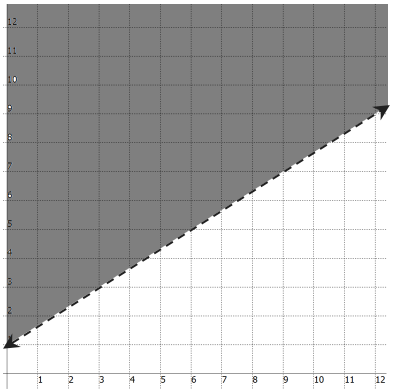

_____

_____

_____

Expresión algebraica: _____

4.

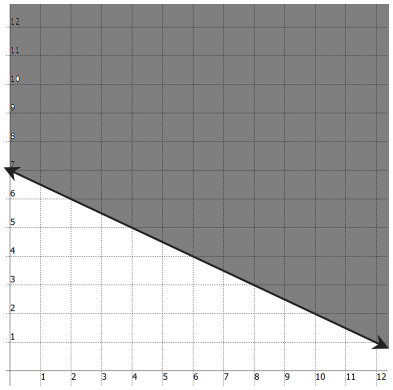

_____

_____

_____

Expresión algebraica: _____

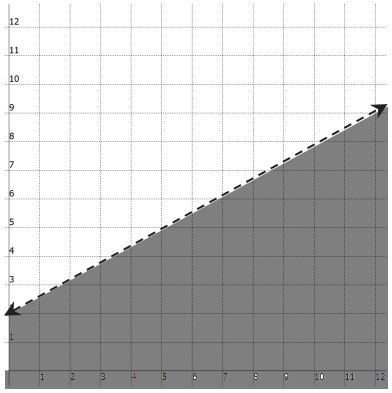

5.

_____

_____

_____

Expresión algebraica: _____

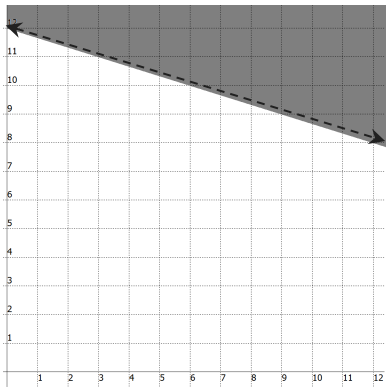

6.

_____

_____

_____

Expresión algebraica: _____

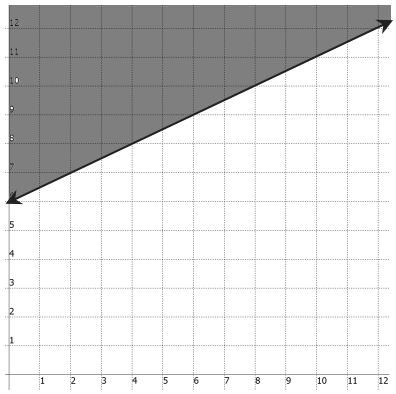

7. _____

_____

_____

Expresión algebraica: _____

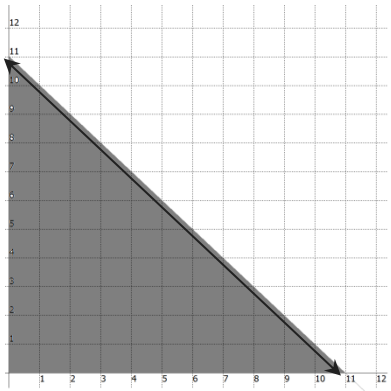

8. _____

_____

_____

Expresión algebraica: _____